わり算（イラスト付き文章問題 A）
計算式を考えて答える イラスト付「あまりのないわり算」

（答え）

■ 文章をよく読んで、絵を見ながらわり算の式と答えを書いてみよう。

① 4こあるハンバーガーを 4人で同じ数ずつ分けます。
1人いくつずつもらえますか？

【式】4÷4＝1

答え 1こ

② 6こあるケーキを 3人で同じ数ずつ分けます。
1人何こずつもらえますか？

【式】6÷3＝2

答え 2こ

わり算（イラスト付き文章問題 A）
計算式を考えて答える イラスト付「あまりのないわり算」

（答え）

■ 文章をよく読んで、絵を見ながらわり算の式と答えを書いてみよう。

③ 12こあるりんごを 2人で同じ数ずつ分けます。
1人何こずつもらえますか？



【式】 12÷2=6

答え 6こ

④ 24このすいかを 8人で同じ数ずつ分けます。
1人何こずつもらえますか？

【式】 24÷8=3

答え 3こ

■ 文章をよく読んで、絵を見ながらわり算の式と答えを書いてみよう。

⑤ 36このいちごを 9つの箱に同じ数ずつ分けます。
1つの箱に何こずつ入りますか？



【式】36÷9＝4

答え 4こ

⑥ 40こあるトマトを 8つの箱に同じ数ずつ分けます。
1つの箱に何こずつ入りますか？



【式】40÷8＝5

答え 5こ

■ 文章をよく読んで、絵を見ながらわり算の式と答えを書いてみよう。

⑦ 27このブロッコリーを 3つずつふくろにいれます。
1つのふくろに何こ入りますか？

【式】27÷3＝9

答え 9こ

⑧ とうがらし45こを 9人で同じ数ずつ分けます。
1人何こずつもらえるでしょうか？

【式】45÷9＝5

答え 5こ

（答え）

■ 文章をよく読んで、絵を見ながらわり算の式と答えを書いてみよう。

⑨ キャンディ72こを 9人の友だちで同じ数ずつ分けます。
1人何こずつもらえますか？



【式】72÷9＝8

答え 8こ

⑩ ドーナツ64こを 8人の友だちで同じ数ずつ分けます。
1人何こずつもらえますか？

【式】64÷8＝8

答え 8こ