わり算（イラスト付き文章問題 A）
計算式を考えて答える イラスト付「あまりのないわり算」

■ 文章をよく読んで、絵を見ながらわり算の式と答えを書いてみよう。

① 4こあるハンバーガーを 4人で同じ数ずつ分けます。
1人いくつずつもらえますか？

【式】

答え

② 6こあるケーキを 3人で同じ数ずつ分けます。
1人何こずつもらえますか？

【式】

答え

■ 文章をよく読んで、絵を見ながらわり算の式と答えを書いてみよう。

③ 12こあるりんごを 2人で同じ数ずつ分けます。
1人何こずつもらえますか？



【式】

答え

④ 24このすいかを 8人で同じ数ずつ分けます。
1人何こずつもらえますか？

【式】

答え

■ 文章をよく読んで、絵を見ながらわり算の式と答えを書いてみよう。

⑤ 36このいちごを 9つの箱に同じ数ずつ分けます。
1つの箱に何こずつ入りますか？



【式】

答え

⑥ 40こあるトマトを 8つの箱に同じ数ずつ分けます。
1つの箱に何こずつ入りますか？



【式】

答え

■ 文章をよく読んで、絵を見ながらわり算の式と答えを書いてみよう。

⑦ 27このブロッコリーを 3つずつふくろにいれます。
1つのふくろに何こ入りますか？

【式】

答え

⑧ とうがらし45こを 9人で同じ数ずつ分けます。
1人何こずつもらえるでしょうか？

【式】

答え

■ 文章をよく読んで、絵を見ながらわり算の式と答えを書いてみよう。

⑨ キャンディ72こを 9人の友だちで同じ数ずつ分けます。
1人何こずつもらえますか？



【式】

答え

⑩ ドーナツ64こを 8人の友だちで同じ数ずつ分けます。
1人何こずつもらえますか？

【式】

答え